ПРАКТИЧЕСКАЯ РАБОТА

Описание климата по климатограммам

Вперед

КЛИМАТОГРАММА

Задание. Изучить элементы климатограммы

Годовой ход температуры

Годовое количество осадков

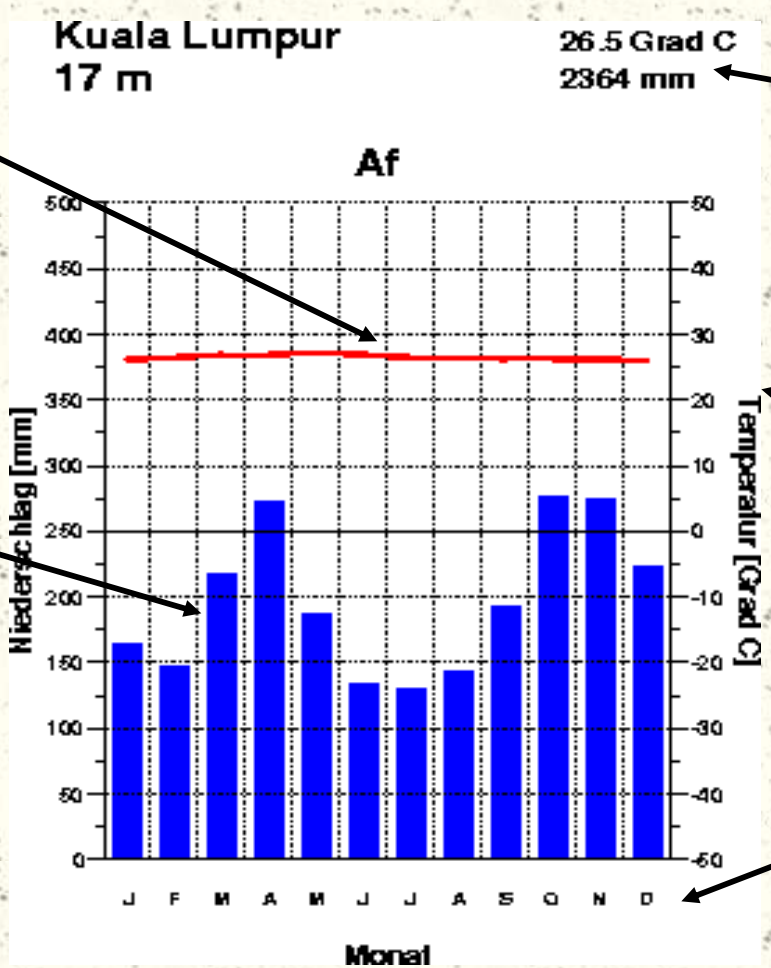

Температура

Количество осадков

Месяцы года

Вперед

КЛИМАТОГРАММЫ

<u>Задание</u>. Выбрать климатограмму для работы

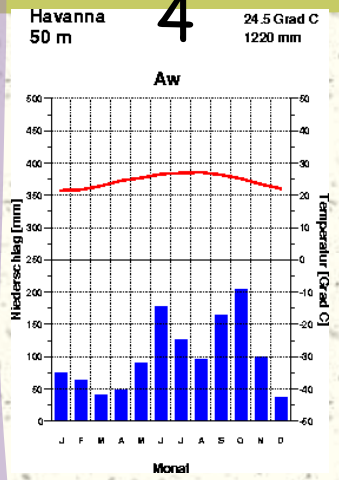

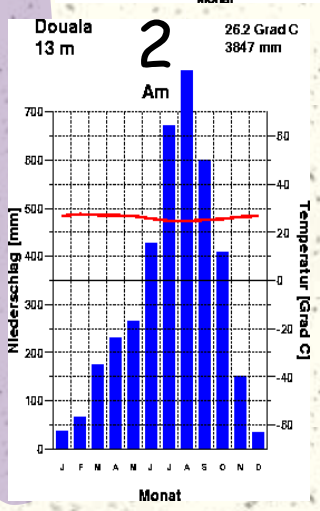

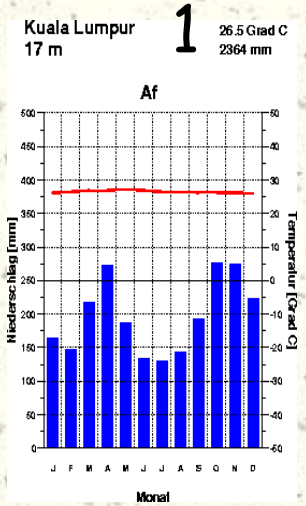

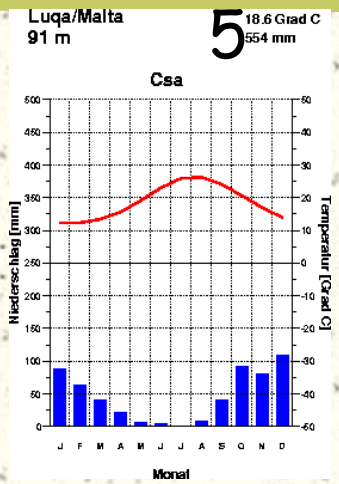

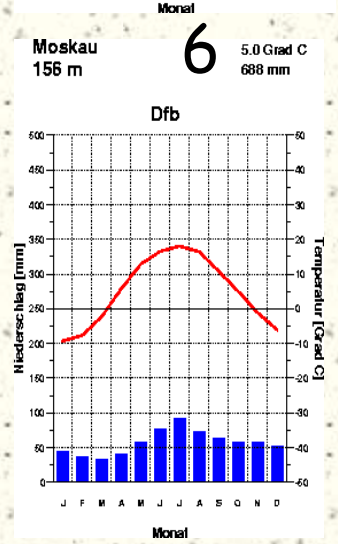

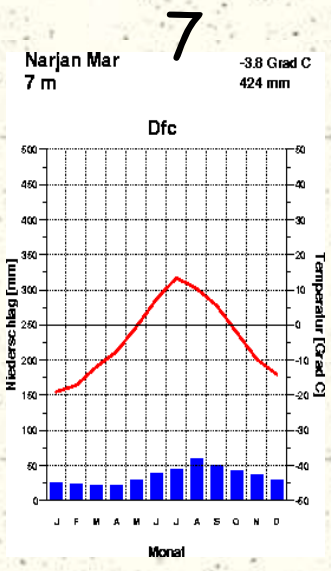

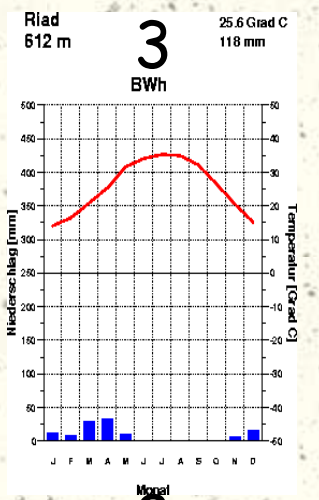

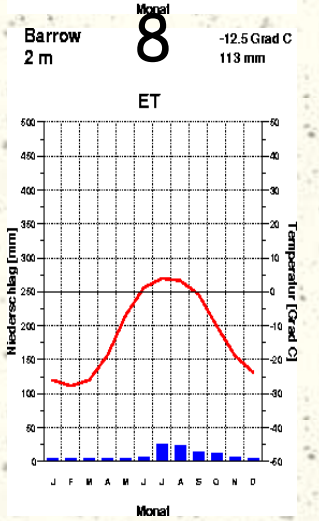

Назад

КЛИМАТОГРАММА № 1

Задание. Определить тип климата по климатическим характеристикам

- 1. Какова средняя температура января и июля?
- 2. Какова амплитуда температур?
- 3. Каково годовое количество осадков?
- 4. Каков режим выпадения осадков:
- А) осадки выпадают равномерно в течение года
- Б) осадки выпадают неравномерно в течение года
- 5. Какой это тип климата?

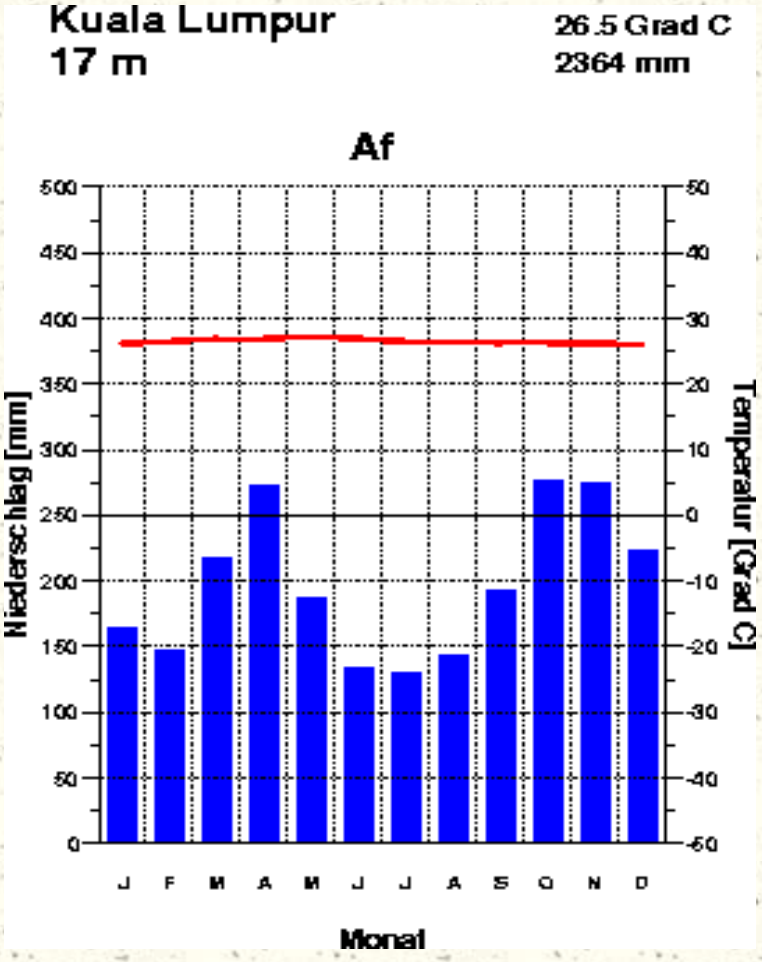

Вперед

Назад

Климатограмма № 1

Задание. Определить ВМ и размещение данного типа климата

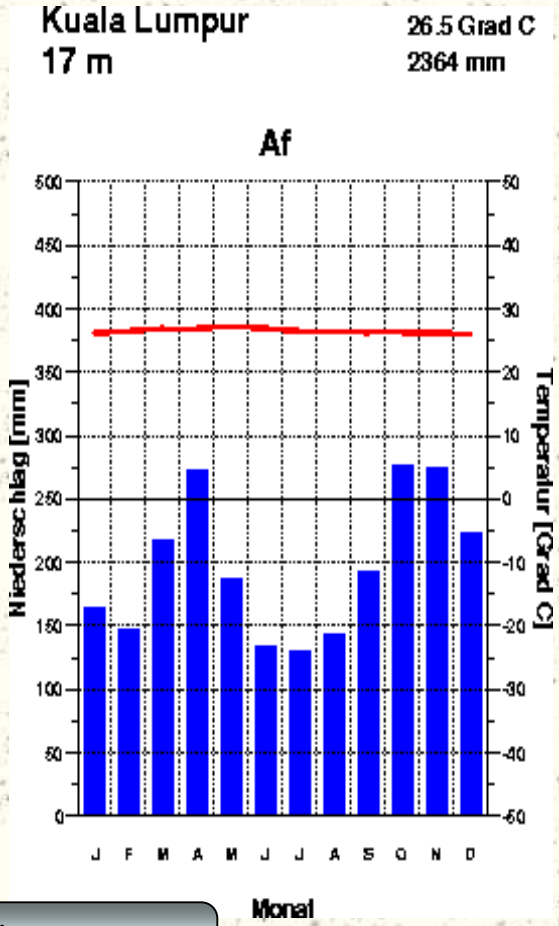

1. Какие ВМ формируют тип климата?
2. На каких материках он распространен?
3. Какие страны размещаются в пределах данного типа климата?

Назад

Климатограмма № 2

Задание. Определить тип климата по климатическим характеристикам

- 1. Какова средняя температура января и июля?
- 2. Какова амплитуда температур?
- 3. Каково годовое количество осадков?
- 4. Каков режим выпадения осадков:
- А) осадки выпадают равномерно в течение года
- Б) осадки выпадают неравномерно в течение года (в какое время года выпадает максимум осадков)?
- 5. Какой это тип климата?

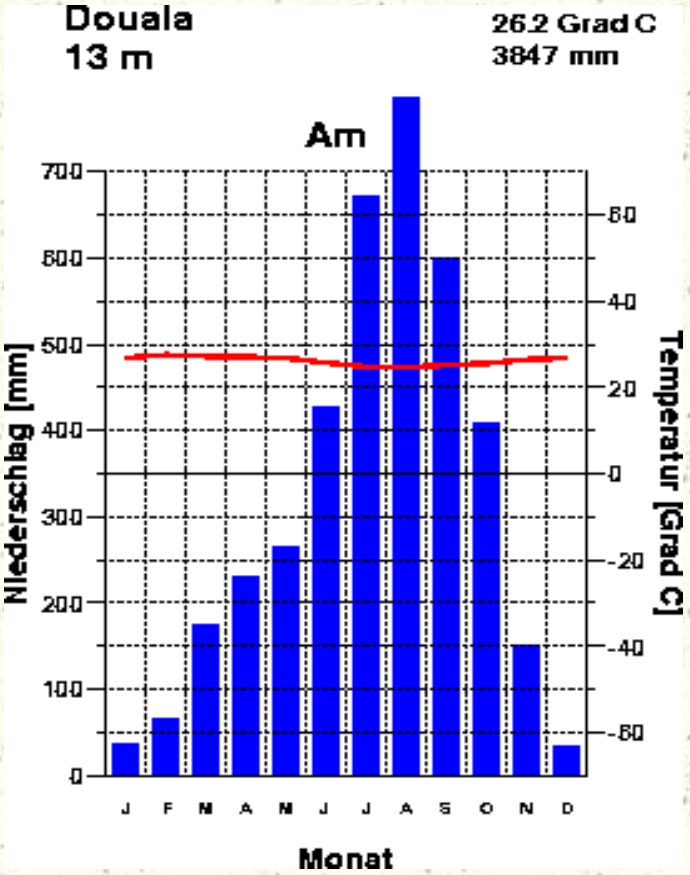

Вперед

Назад

Климатограмма № 2

Задание. Определить ВМ и размещение данного типа климата.

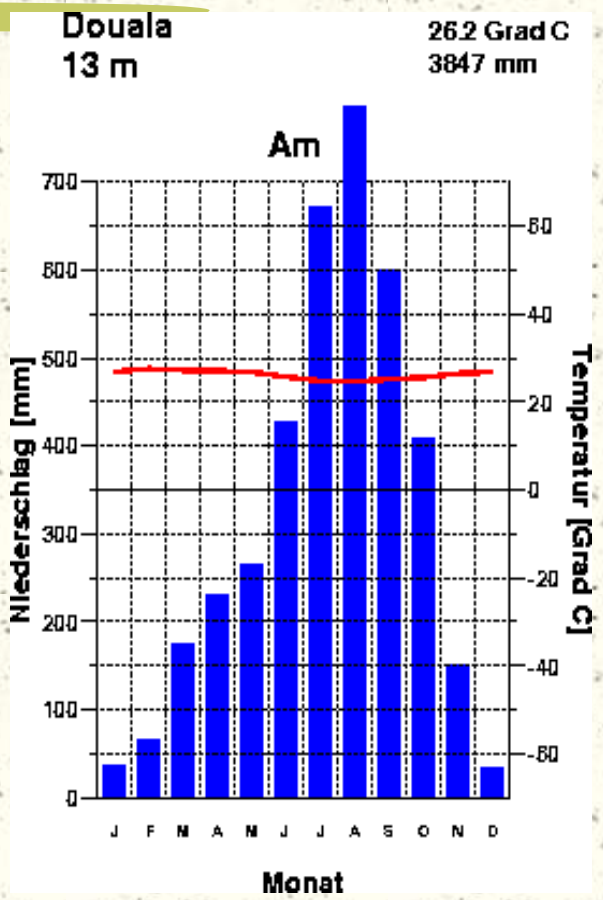

1. Какие ВМ формируют тип климата?
2. На каких материках он распространен?
3. Какие страны размещаются в пределах данного типа климата?

Назад

Климатограмма № 3

Задание. Определить тип климата по климатическим характеристикам.

- 1. Какова средняя температура января и июля?
- 2. Какова амплитуда температур?
- 3. Каково годовое количество осадков?
- 4. Каков режим выпадения осадков:
- А) осадки выпадают равномерно в течение года
- Б) осадки выпадают неравномерно в течение года?
- 5. Какой это тип климата?

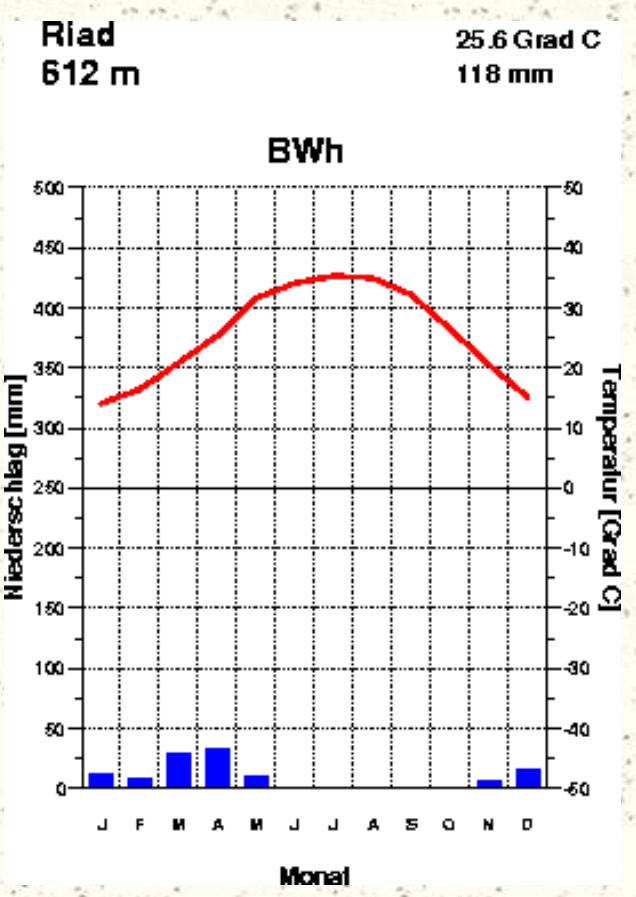

Вперед

Назад

Климатограмма № 3

Задание. Определить ВМ и размещение данного типа климата.



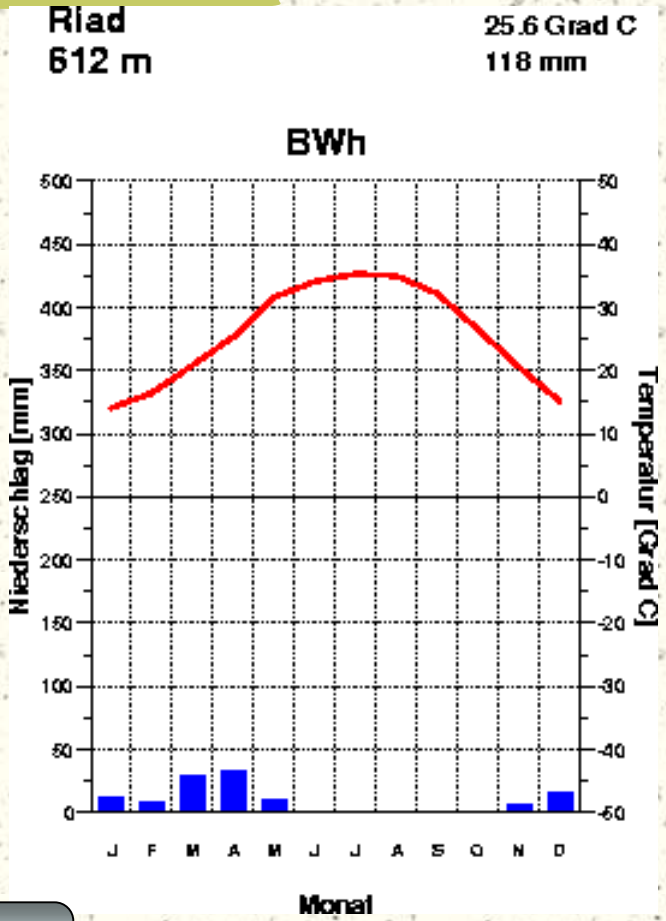

1. Какие ВМ формируют тип климата?
2. На каких материках он распространен?
3. Какие страны размещаются в пределах данного типа климата?

Назад

Климатограмма № 4

Задание. Определить тип климата по климатическим характеристикам.

- 1. Какова средняя температура января и июля?
- 2. Какова амплитуда температур?
- 3. Каково годовое количество осадков?
- 4. Каков режим выпадения осадков:
- А) осадки выпадают равномерно в течение года
- Б) осадки выпадают неравномерно в течение года?
- 5. Какой это тип климата?

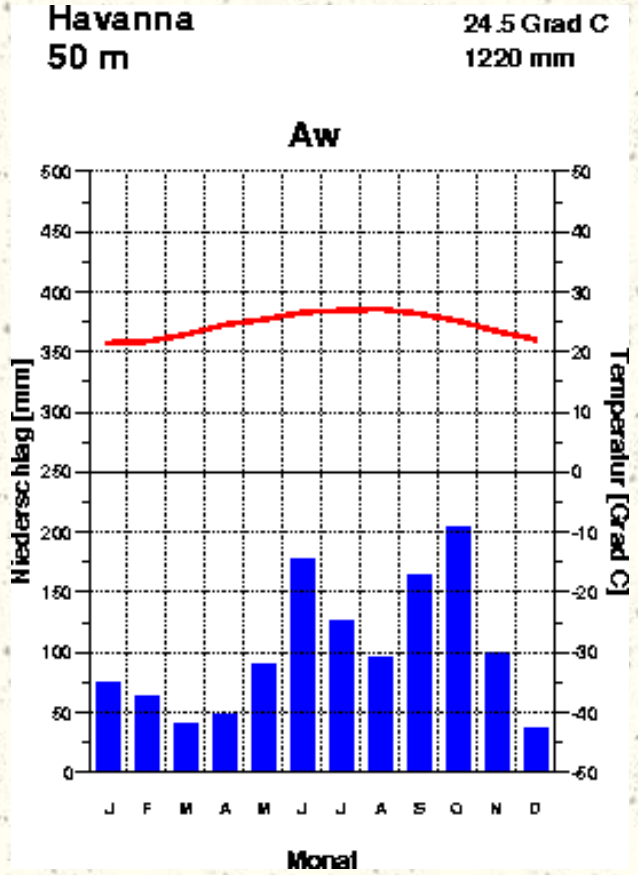

Вперед

Назад

Климатограмма № 4

Задание. Определить ВМ и размещение данного типа климата.

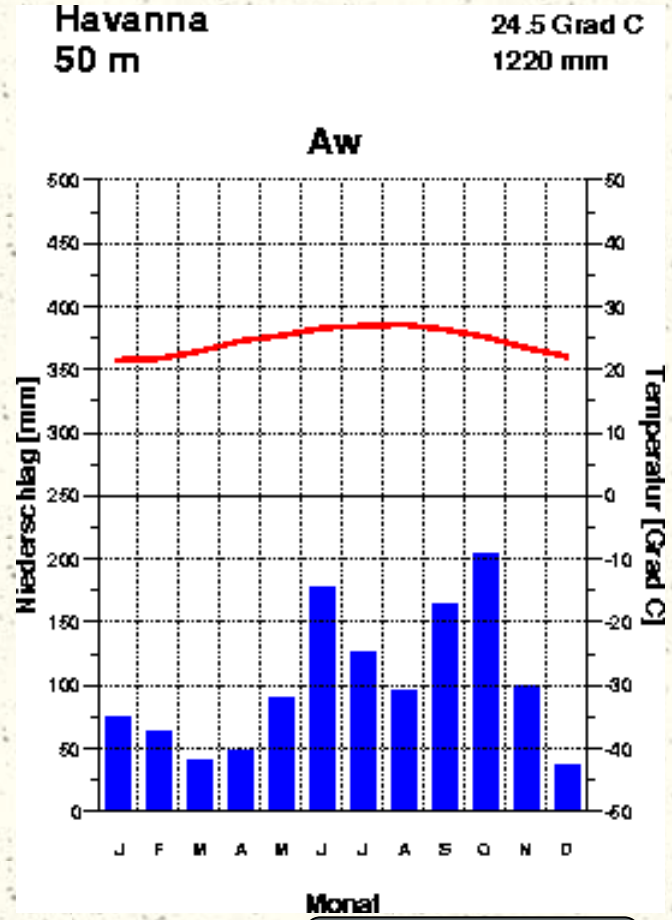

1. Какие ВМ формируют тип климата?
2. На каких материках он распространен?
3. Какие страны размещаются в пределах данного типа климата?

Назад

Климатограмма № 5

Задание. Определить тип климата по климатическим характеристикам

- 1. Какова средняя температура января и июля?
- 2. Какова амплитуда температур?
- 3. Каково годовое количество осадков?
- 4. Каков режим выпадения осадков:
- А) осадки выпадают равномерно в течение года
- Б) осадки выпадают неравномерно в течение года (в какое время года выпадает максимум осадков)?
- 5. Какой это тип климата?

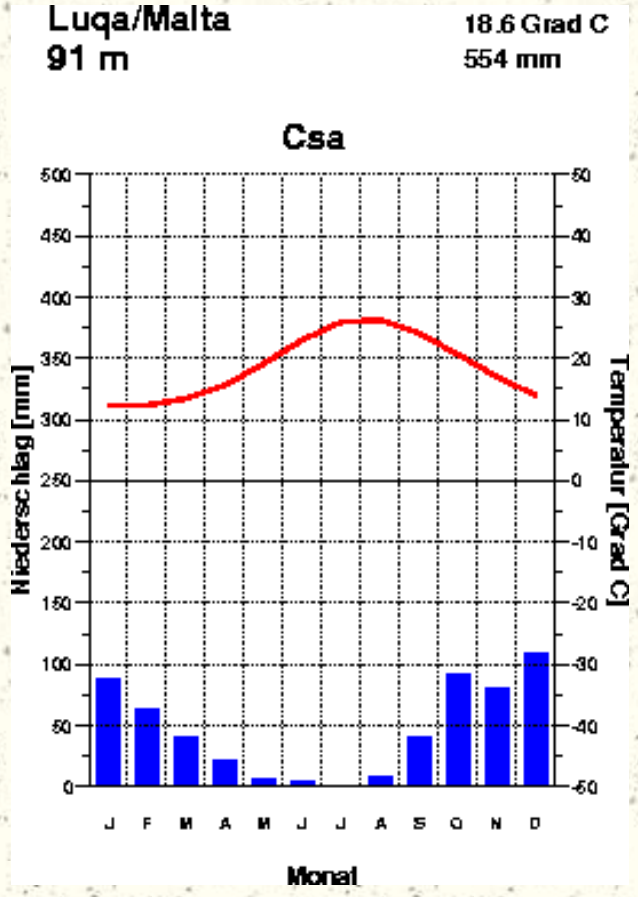

Вперед

Назад

Климатограмма № 5

Задание. Определить ВМ и размещение данного типа климата

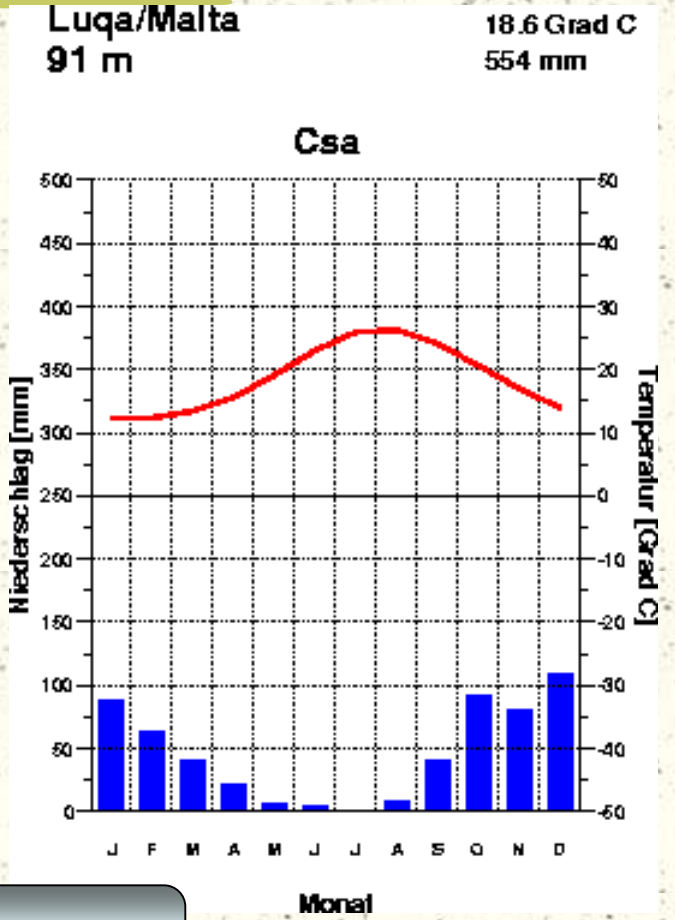

1. Какие ВМ формируют тип климата?
2. На каких материках он распространен?
3. Какие страны размещаются в пределах данного типа климата?

Назад

Климатограмма № 6

<u>Задание.</u> Определить тип климата по климатическим характеристикам

- 1. Какова средняя температура января и июля?
- 2. Какова амплитуда температур?
- 3. Каково годовое количество осадков?
- 4. Каков режим выпадения осадков:
- А) осадки выпадают равномерно в течение года
- Б) осадки выпадают неравномерно в течение года?
- 5. Какой это тип климата?

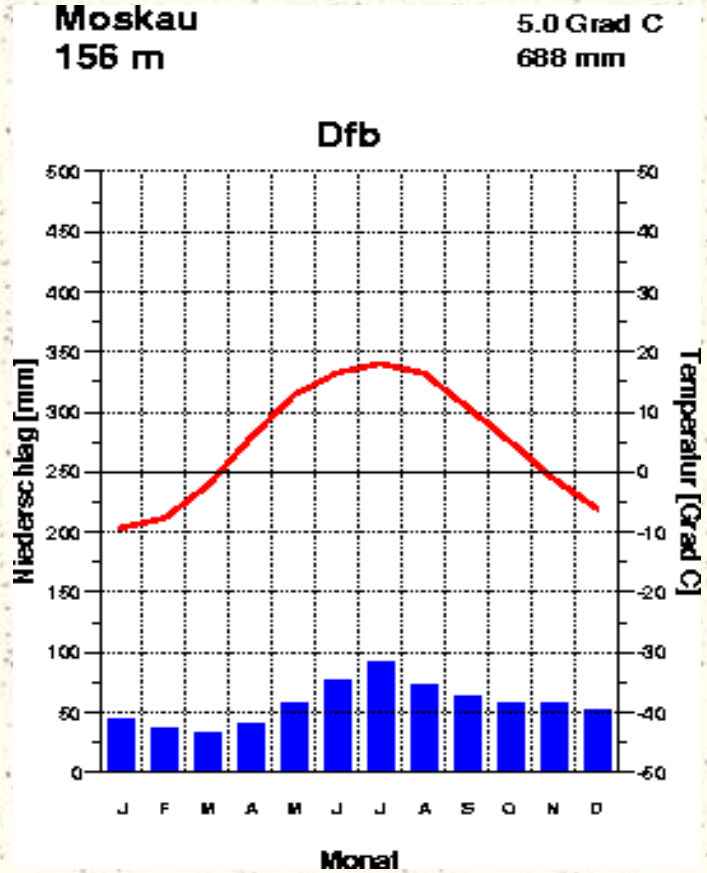

Вперед

Назад

Климатограмма № 6

Задание. Определить ВМ и размещение данного типа климата

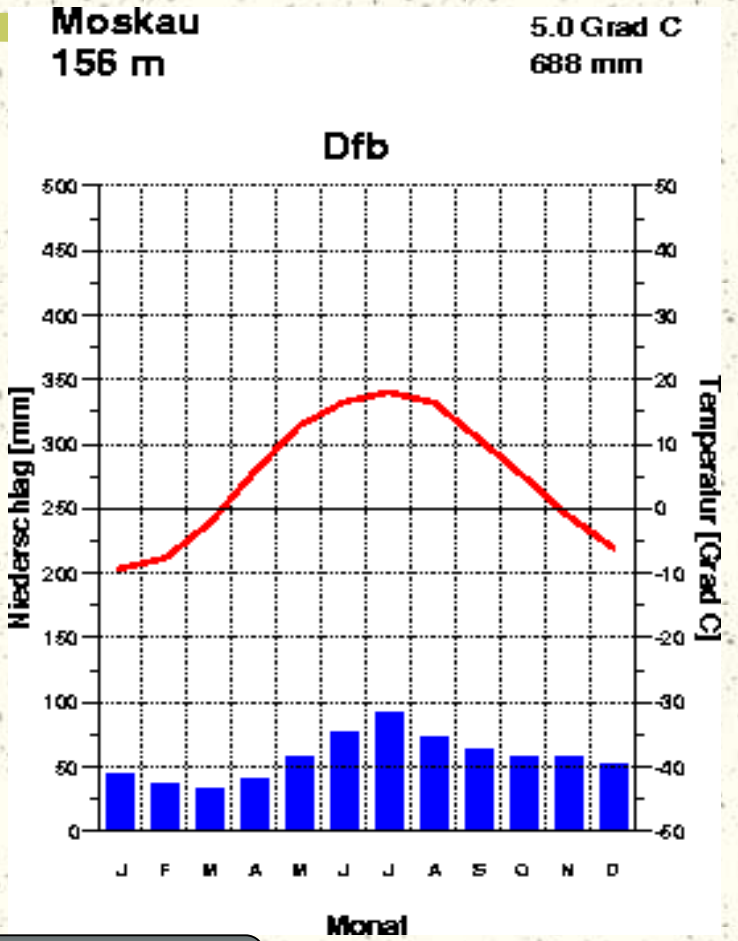

1. Какие ВМ формируют тип климата?
2. На каких материках он распространен?
3. Какие страны размещаются в пределах данного типа климата?

Назад

Климатограмма № 7

Задание. Определить тип климата по климатическим характеристикам

- 1. Какова средняя температура января и июля?
- 2. Какова амплитуда температур?
- 3. Каково годовое количество осадков?
- 4. Каков режим выпадения осадков:
- А) осадки выпадают равномерно в течение года
- Б) осадки выпадают неравномерно в течение года (в какое время года выпадает максимум осадков)?
- 5. Какой это тип климата?

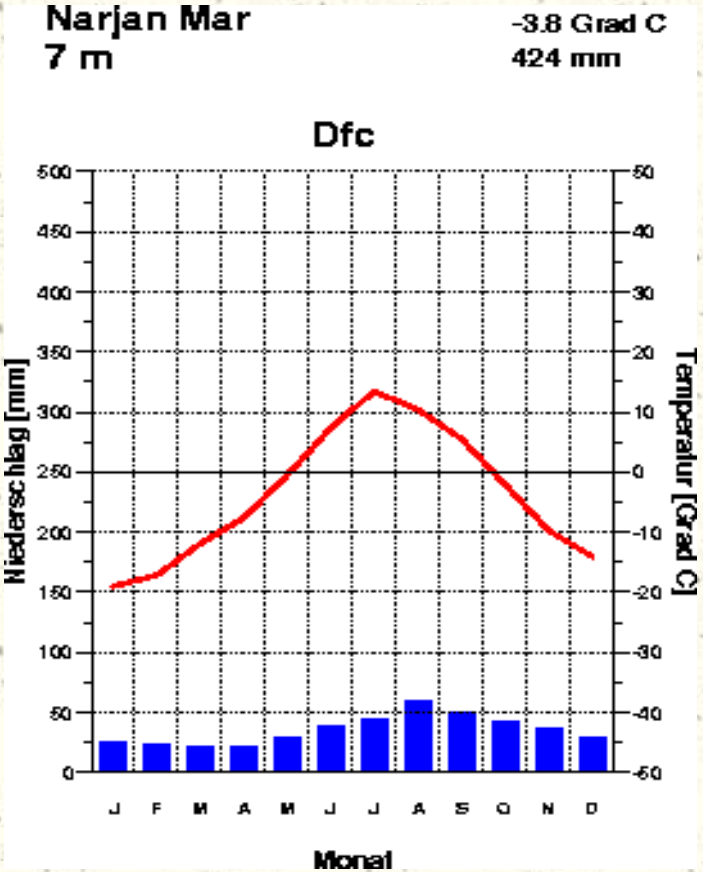

Вперед

Назад

Климатограмма № 7

<u>Задание.</u> Определить ВМ и размещение данного типа климата

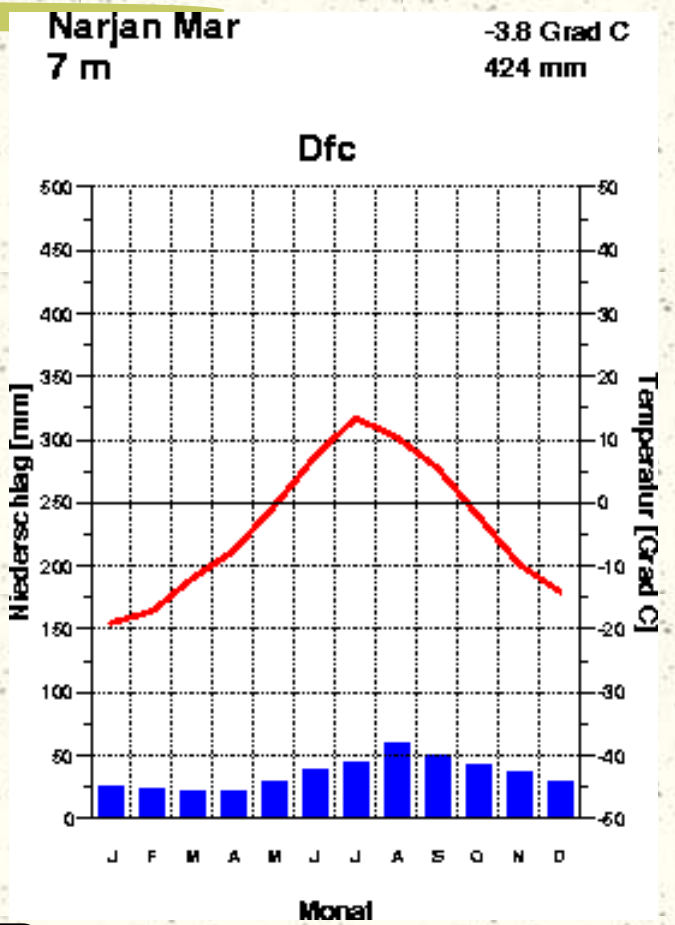

1. Какие ВМ формируют тип климата?
2. На каких материках он распространен?
3. Какие страны размещаются в пределах данного типа климата?

Назад

Климатограмма № 8

<u>Задание.</u> Определить тип климата по климатическим характеристикам

- 1. Какова средняя температура января и июля?
- 2. Какова амплитуда температур?
- 3. Каково годовое количество осадков?
- 4. Каков режим выпадения осадков:
- А) осадки выпадают равномерно в течение года
- Б) осадки выпадают неравномерно в течение года?
- 5. Какой это тип климата?

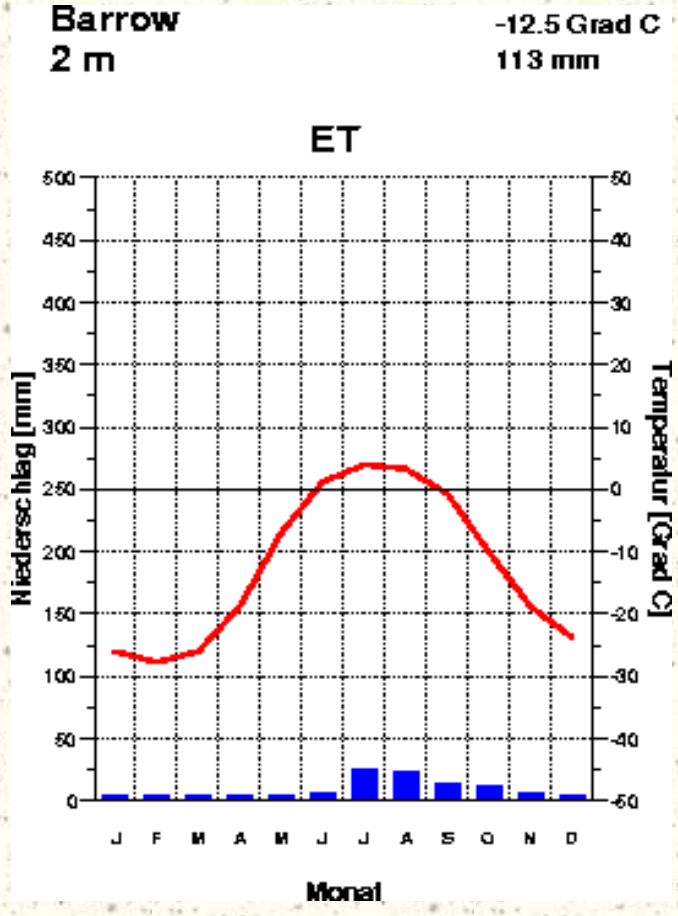

Вперед

Назад

Климатограмма № 8

<u>Задание</u>. Определить ВМ и размещение данного типа климата

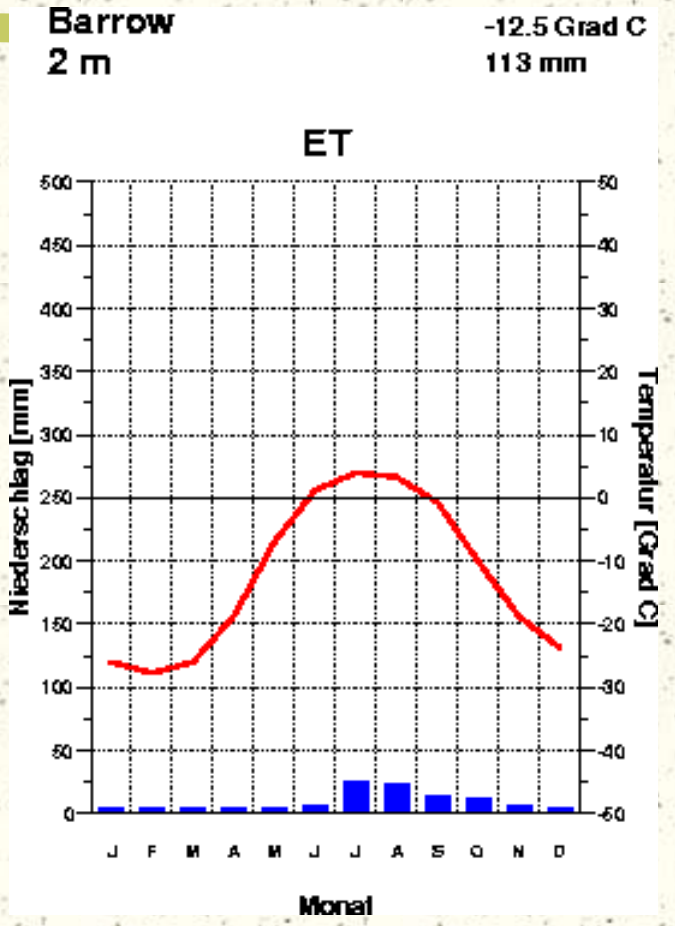

1. Какие ВМ формируют тип климата?
2. На каких материках он распространен?
3. Какие страны размещаются в пределах данного типа климата?

Назад