Региональная проверочная работа по математике **17.10.2017 г.**

ФИО_____

_____**школа**_____**класс 4 «___»**

ВАРИАНТ 1

Задание 1. Вычисли: 58-12. Запиши ответ.

Ответ: _____.

Задание 2. Найди значение выражения 5·10-28:7. Запиши решение и ответ.

Решение:	
Ответ:	

Задание 3.

Бабушка сварила 14 литров варенья. Сколько литров варенья останется у бабушки, если она заполнит им две трёхлитровые, две двухлитровые и одну самую маленькую банку (см. рис.)? Запиши решение и ответ.



Решение:	
Ответ:	

Задание 4. Занятия в музыкальной школе длятся по 30 минут каждое, а перемены между ними – по 10 минут. В 14:00 началось первое занятие. Во сколько закончится третье занятие? Запиши решение и ответ.

Решение:

Ответ:

Задание 5. На рисунке длина стороны клеточки равна 1 см.

1) Достройй прямоугольник так, чтобы его периметр был равен 14 см.

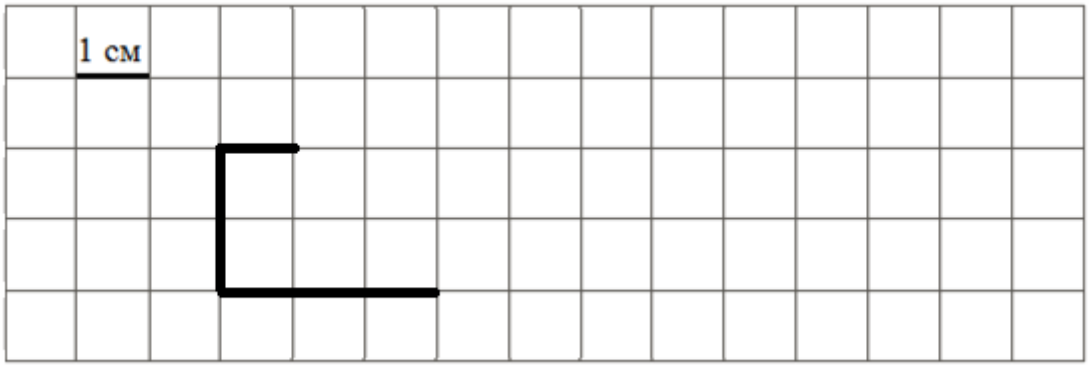

2) Вычисли площадь получившегося прямоугольника. Запиши решение и ответ.

Решение:

Ответ:

Задание 6. Ниже приведён фрагмент программы познавательного телеканала для детей.

Время	**Четверг**	**Пятница**	**Суббота**
17:00	Профессия	Мир кошек	Моря и океаны
17:30	Планета вкусов	Моря и океаны	Мир кошек
18:00	Моря и океаны	Города мира	Профессия
18:30	Города мира	Профессия	Города мира
19:00	Далёкие звёзды	Планета вкусов	Планета вкусов

Пользуясь таблицей, обведи верные утверждения.

1) В субботу в 17:30 начинается передача «Мир кошек».

2) В каждый из этих трёх дней передачи «Профессия» и «Планета вкусов» являются соседними в программе.

3) В каждый из этих трёх дней передача «Моря и океаны» идёт раньше передачи «Города мира».

4) В четверг и субботу в 18:30 начинаются передачи с одинаковым названием.

Задание 7. Найди значение выражения (74:2-37)·9. Запиши решение и ответ.

Решение:

Ответ:

Задание 8. Стоимость билета на одну поездку в автобусе – 24 рубля, а стоимость проездного билета на 10 поездок – 180 рублей. Сколько рублей сэкономит дядя Федор за 10 поездок, если он будет использовать проездной билет? Запиши решение и ответ.

Решение:	
Ответ:	

Задание 9. На уроке технологии дети складывали фигурки из бумаги. В образце показано, что получилось, когда лист бумаги перегнули по отмеченной линии. На рисунке 1 дана фигура и линия сгиба. Покажи на рисунке 2, как будет выглядеть эта фигура после сгибания. Закрась отогнутую часть.

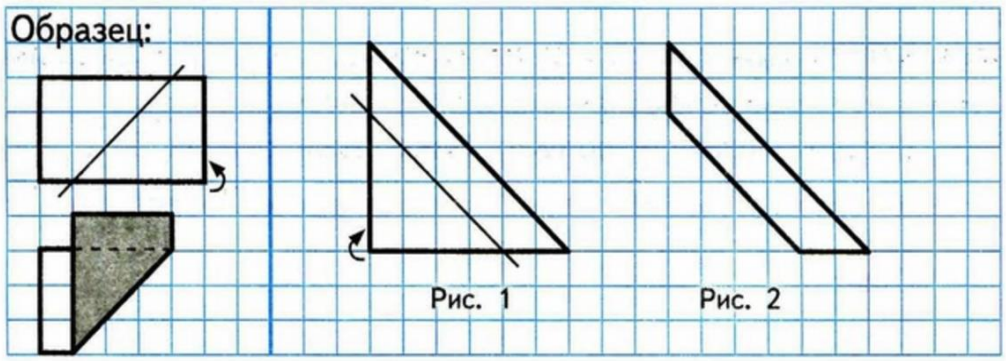

Задание 10. Стену высотой 3 м и длиной 6 м 50 см необходимо оклеить обоями. Ширина обоев в рулоне составляет 50 см, длина 10 м. Сколько рулонов обоев надо купить, чтобы их хватило на всю стену?

Запиши решение и ответ.

Региональная проверочная работа по математике **17.10.2017 г.**

ФИО_____класс 4 «___»

Решение:																														
Ответ:																														

Для работы муниципальной комиссии:

Номер задания	1	2	3	4	5	6	7	8	9	10	Итого
Баллы											

Работу проверил_____/_____/