Система подготовки учащихся к государственной итоговой аттестации по географии

Выполнили:
Чубарова Н.В.
Константинова А.Д.
Кривцова Н.В.
Шеховцова А.Р
Феофилова Е.И.

Цель :

Повышение уровня знаний учащихся, для успешной сдачи экзамена по географии.

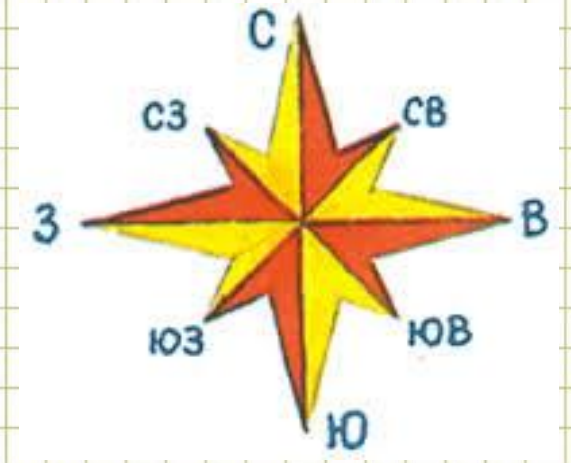



Формула успешной сдачи экзамена по географии

Самообразование педагога

+

подготовка

учащихся к итоговой аттестации

+

Работа с родителями

Этапы

- планирование работы по подготовке к ГИА на консультациях, на уроках;
- диагностика ЗУН, участников ГИА по географии;
- повтор и структурирование школьных знаний по предмету;
- более углубленное изучение тем, по которым составлены задания КИМ
- обучение навыкам работы с картографическими, графическими, статистическими материалами.

На экзамен нужно взять:

Паспорт РФ

Географические атласы



любого издательства

Чёрную ручку

Линейку

Непрограммируемый калькулятор

Информация о ГИА

http://www.fipi.ru

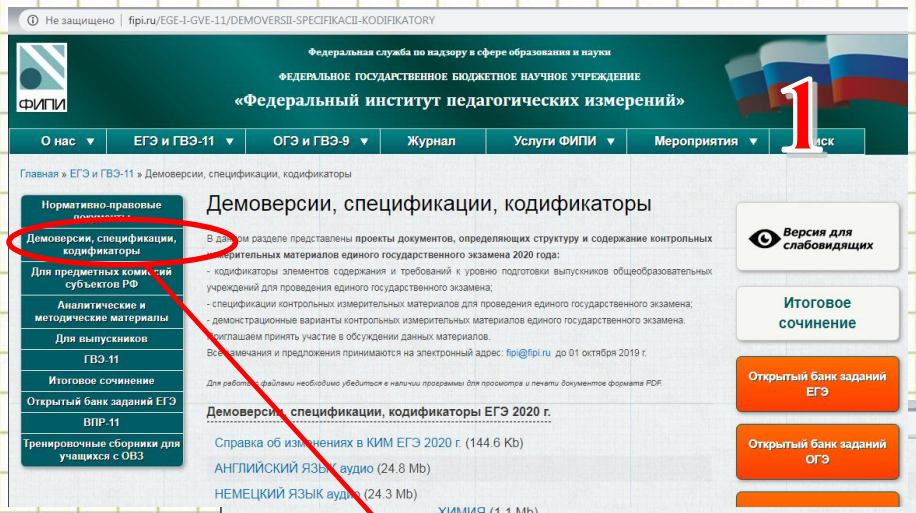

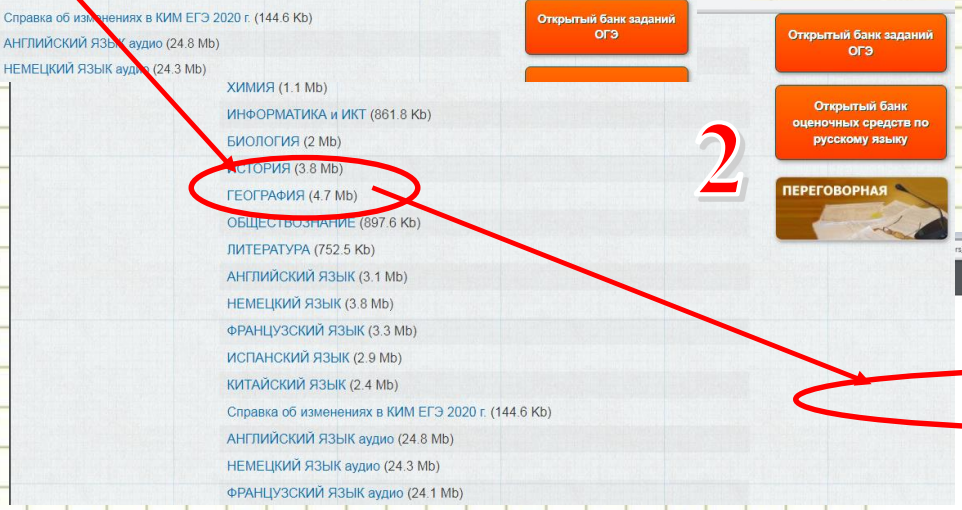

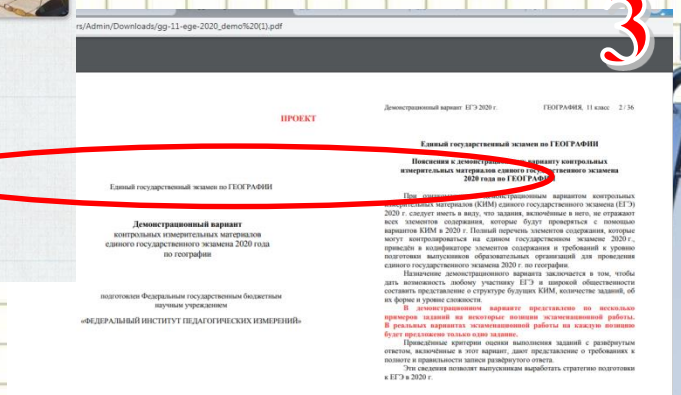

Работа на информационном портале «Решу ЕГЭ»

- Много вариантов
- Можно решать как отдельные типы заданий , так и работу целиком
- Есть пояснения к каждому заданию
- Есть он-лайн тестирование

1. http://www.ctege.info/zadaniya-i-testyi-probnyie-po-geografii/
2. http://geo.reshuege.ru/
3. http://www.ctege.info/knigi-po-geografii-dlya-podgotovki-k-ege/
4. http://4ege.ru/geographi/
5. http://ege.yandex.ru/geography/
6. http://geo.reshuege.ru/



Internet-ресурсы по подготовке к ГИА можно распределить на несколько видов подготовки:

- он-лайн тестирование
- демо-версии
- Разбор упражнений, конспекты
- тренажеры
- курс видеоуроков и лекций
- Дистанционные курсы, вебинары



Составляющие готовности учащихся к сдаче ГИА в форме ОГЭ и ЕГЭ

- информационная готовность;
- предметная или содержательная готовность;
- психологическая готовность.

Алгоритм подготовки к ГИА

Консультации с учителем

Работа с печатными сборниками различных издательств



Открытый банк заданий ФИПИ

Проверить себя на пробном ОГЭ, ЕГЭ провести корректировку занятий

Информационный портал «РЕШУ ЕГЭ»

Тренажеры и симуляторы ОГЭ, ЕГЭ по предмету

Что мешает подготовке?

- Неуверенность; отсутствие желания учиться;
- заниженная самооценка;
- Негативное отношение к экзамену;
- Низкий уровень вычислительных навыков;
- Слабая сформированность понятий и определений;
- Наличие «пробелов».

Что поможет подготовке?

- **Неоднократная репетиция ситуации экзамена, формирование адекватной оценки, позитивный настрой на экзамен;**
- **Углублённая подготовка учащихся по географии: дифференцированный подход на уроках; индивидуальные консультации.**
- **Непосредственная подготовка к ГИА сильных и слабых учеников.**
- **Тренировка в условиях, максимально приближенных к условиям реального экзамена, выработка определенного плана, стратегии работы на экзамене, психологическая подготовка.**
- **Проведение в течение года диагностических работ, глубокий анализ результатов и работа по коррекции.**

ГИА-2021



В 2020-2021 учебном году сдавать государственные экзамены в 9 классе будут школьники, которые первые начали учиться по новым образовательным стандартам (ФГОС).

Новая модель экзамена ориентирована на усиление практической направленности и усиление связи школьного географического образования с жизнью.

Неизменным остается поиск самых высоких гор и самых длинных рек. Но появляются дополнительные нюансы. Учащемуся надо справиться с такими заданиями:

- проработать сообщение из средств массовой информации;
- дать локацию определенному событию;
- зафиксировать точку в пространстве.

На ОГЭ по географии вынесены модули, изучаемые с 5 по 9 класс, а именно:

землеведение;

страноведение;

физическая география;

география России....



Распределение количества вопросов по основным образовательным блокам

Распределение количества вопросов по основным образовательным блокам также не получило существенных изменений.

№	Раздел	Кол-во вопросов
1	Материки, океаны, страны и народы	2
2	Природопользование, экология	2
3	Природа Земли и человек	3
4	Источники информации	7
5	География России	13

Оценивание

Максимально выпускники, заканчивающие в 2020 году 9 класс, смогут набрать на ОГЭ по географии 31 балл (в 2019 было 32 балла).

В спецификациях к КИМам ФИПИ устанавливает следующее распределение максимального балла:

Балл	Задания
1	1-11, 14-19
2	№ 12, 13

Соответственно, экзаменуемым рекомендуют выделять на решение простых вопросов приблизительно от 3-5 минут, а для решения 12 и 13 задач – по 12 минут на каждую.

Демонстрационная версия КИМ имеет следующее распределение заданий по типу:

№	Тип	Кол-во
1	С кратким (цифра)	5
2	С кратким (слово)	5
3	С кратким (число или последовательность)	15
4	С развернутым (ответ с обоснованием)	3
5	С развернутым (график)	1

Таким образом, из нововведений, введенных ФИПИ в КИМ для ОГЭ по географии в 2020 году можно выделить – увеличение количества заданий со свободным ответом и абсолютно новую задачу на построение графика.

Далее начисленные за выполнение отдельных заданий баллы суммируют и переводят в 5-бальную оценку, используя разработанную ФИПИ таблицу соответствия:

Балл	Оценка
27-31	5
20-26	4
12-19	3
0-11	2 (не сдал)

Поскольку нововведения 2020 года еще находятся на стадии обсуждения, в окончательном варианте таблицы тоже возможны несущественные сдвиги в пределах 1-2 баллов.

- **Задания №12**
- **Чтение и анализ карт**
- Задание 12 выполняется с помощью приведённого фрагмента топографической карты и на отдельном бланке, указав номер задания. Вам необходимо выбрать подходящий участок для какого либо действия (посадка помидоров, игра в футбол и т.д.). Участки- это прямоугольники отмеченные цифрами. Но здесь не всё так просто. Помимо того, что нужно выбрать подходящий участок, вас просят указать ещё 2 довода, обаснующих ваш ответ.
-
- При выборе места вам нужно учитывать некоторые и следующих факторов: на сколько близко находится шоссе, какой склон (Северный, Южный и т.д.), на сколько ровная поверхность, есть ли на ней луг или смешанный лес, наличие болота и многое другое.

Расположение Фруктового сада



Школьники выбирают место для катания на санках.

Участники школьной футбольной секции выбирают место для игры в футбол.

Задание 12

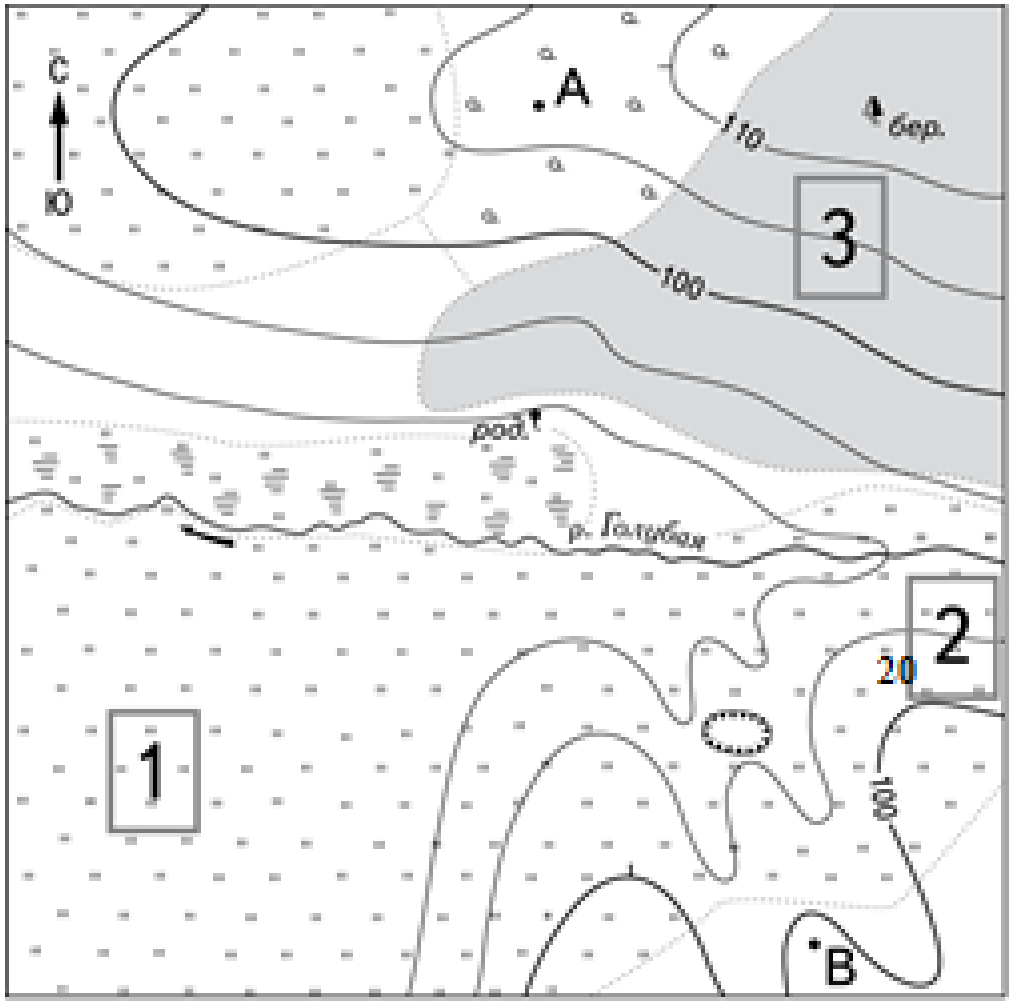

Масштаб 1:10 000
В 1 см 100 м
100 0 100 200
Горизонтали проведены через 5 метров

Родник

Болотистый участок

Яма

Лес

Луг

Редколесье

Школьники выбирают место для катания на санках. Оцените, какой из участков, обозначенных на карте цифрами 1, 2 и 3, больше всего подходит для этого. Для обоснования своего ответа приведите два довода.

Участок 2 лучший, потому что там есть склон и нет деревьев, как на участке 3.

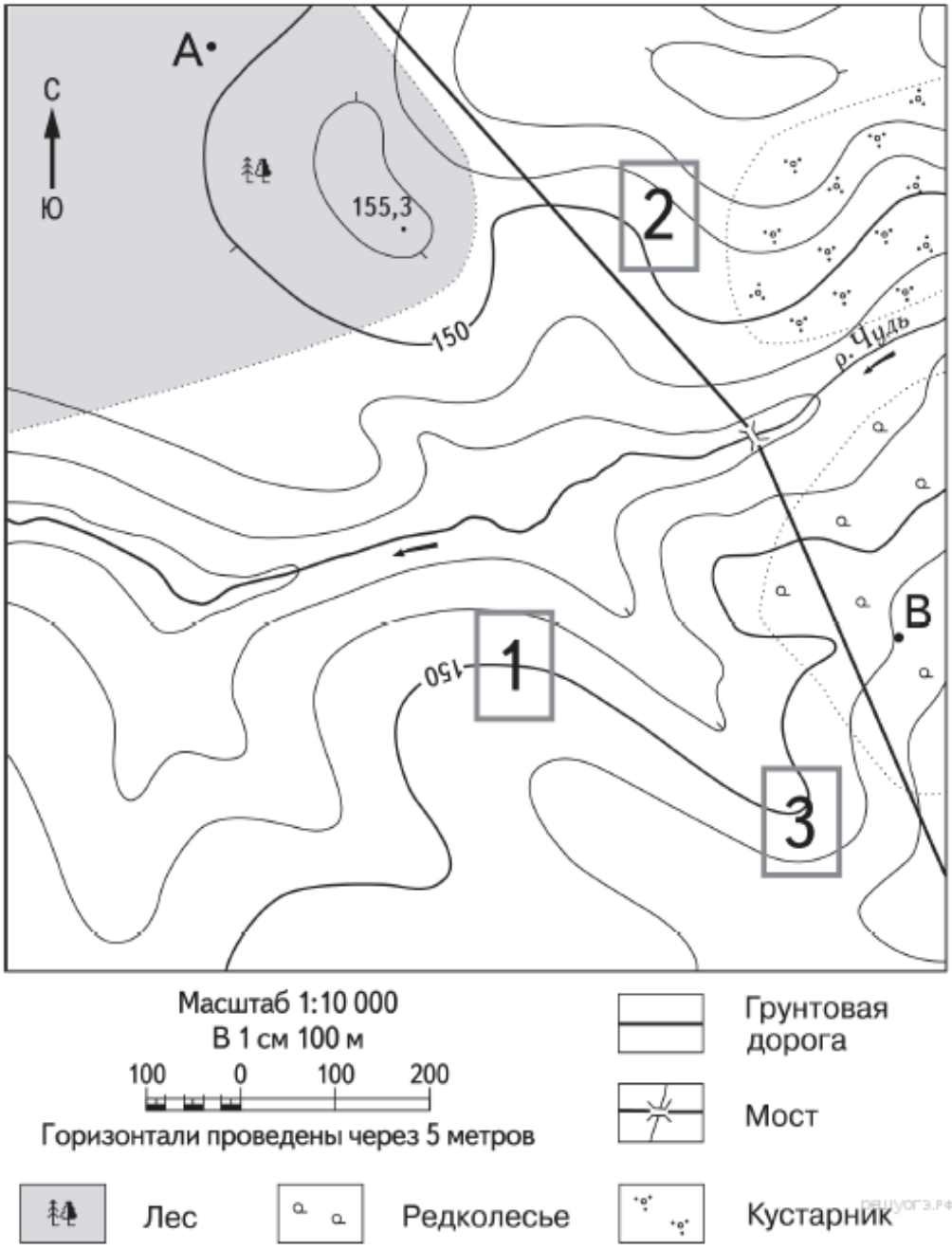

Фермер выбирает участок для закладки нового фруктового сада. Ему нужен участок, на котором весной рано сходит снег, а летом почва лучше всего прогревается солнцем. Он также должен иметь расположение, удобное для вывоза собранного урожая на консервный завод. Определите, какой

Подходит 2 участок.

1. Расположен на южном склоне.

2. Рядом проходит дорога, что удобно для вывоза урожая.

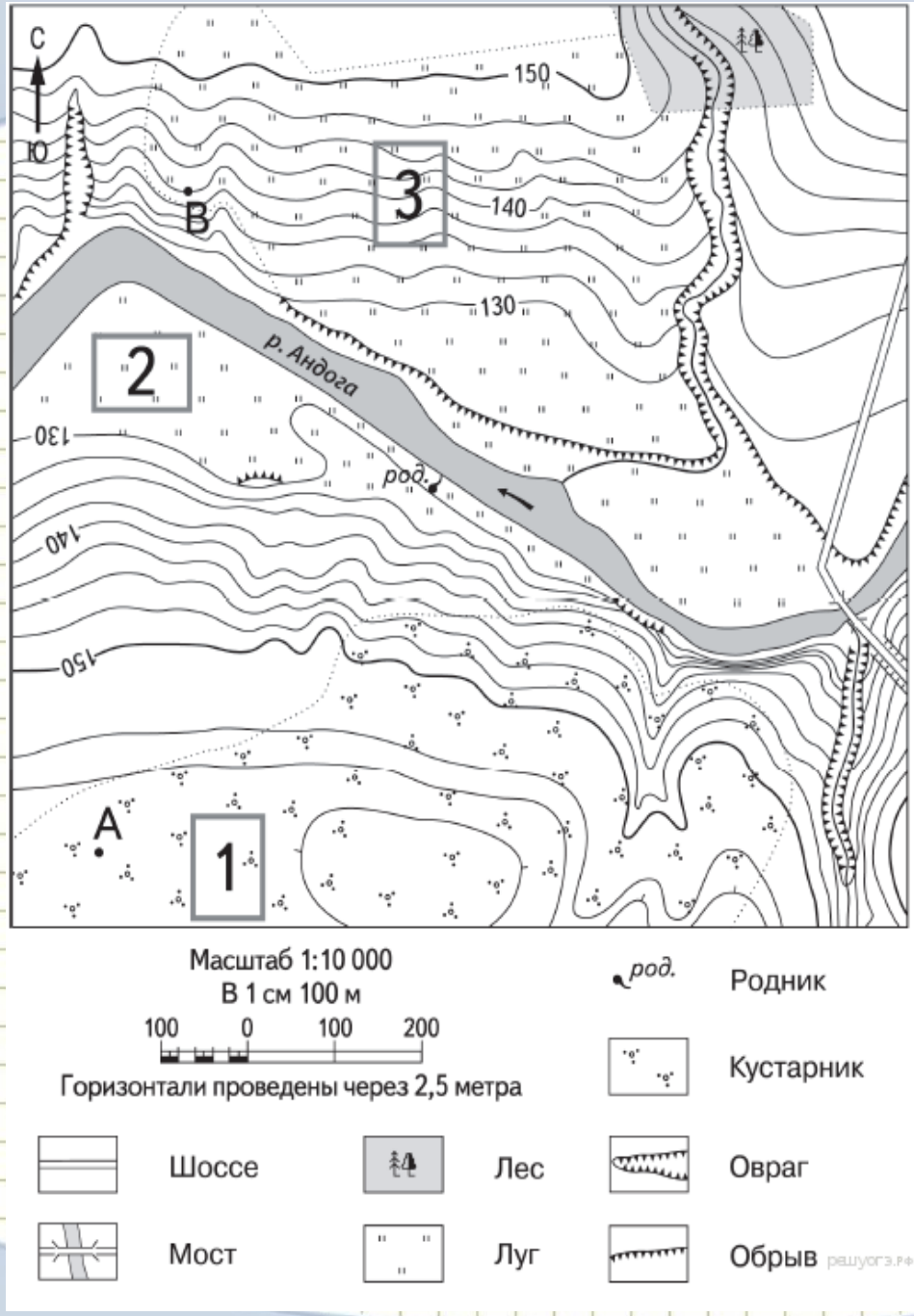

Школьники выбирают место для игры в футбол. Оцените, какой из участков, обозначенных на карте цифрами 1, 2 и 3, больше всего подходит для этого.

Участок 2.

1. Ровная поверхность земли, необходимая для футбольного поля.
2. Нет растительности, как на первом участке. Луг.

Спасибо за внимание!